# 角とその大きさ 問題プリント【まとめテスト】

1 次の角の大きさをはかりましょう。

①

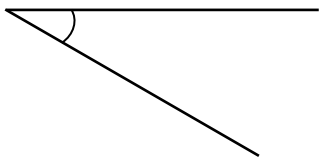

②

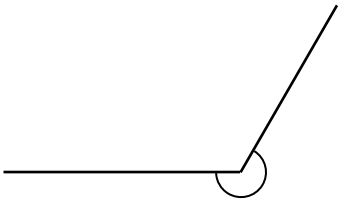

③

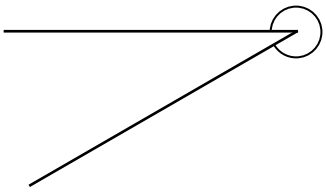

2 次の大きさの角をかきましょう。

① 100°

② 280°

3 （　）にあてはまる数をかきましょう。

① 直角の大きさは（　　）°です。

② 一回転の角の大きさは（　　）°です。

③ 半回転の角の大きさは（　　）°です。

④ 180°は、直角の（　　）こ分、360°は直角の（　　）こ分です。

4 1組の三角じょうぎを使ってつくった㋐、㋑の角の大きさは何度ですか。

①

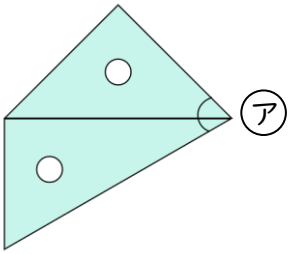


②

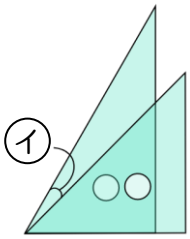

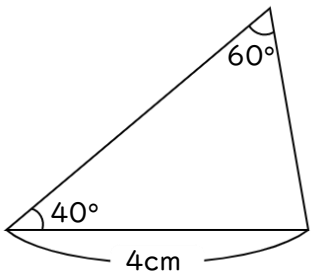
5 次のような三角形をかきましょう。