合同な図形の問題プリント【まとめテスト】

1.　下のア～クの図形のうち、合同な図形を３組選びましょう。

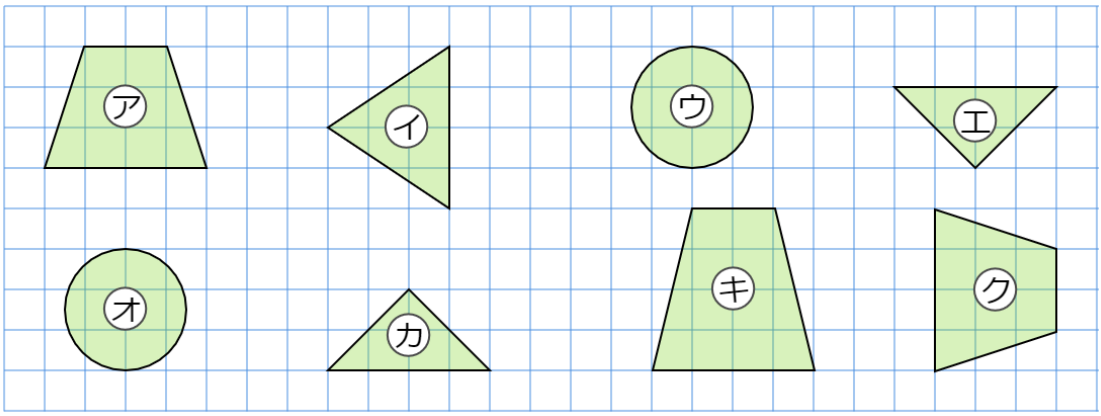

2.　コンパスや定規、分度器を使って、次のような三角形をかきましょう。

①　３つの辺の長さが 3cm, 4cm, 5cm の三角形

②　１つの辺の長さが 4cm で、その両はしの角の大きさが 60°，45°の三角形

①

②

3.　下の図のア、イ、ウの角の大きさは何度か答えましょう。

①

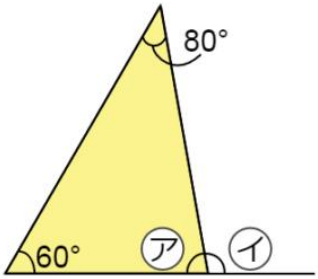
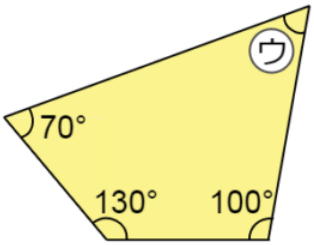
②